印海 be YOUNG

14.06.2026 第707期

□Harga Rp.5000,– khusus JABODETABEK (luar kota tambah ongkos kirim)

别当低头族

HARIAN INDONESIA 印度尼西亞日報

Penerbit : PT Emas Indonesia Duaribu, Jalan Gajah Mada No. 96-97, Jakarta 11140 - Indonesia.
Telp : (021) 6386 8348. Redaksi : (021) 6386 8348 ext 200, Iklan : (021) 633 8139 / 634 8232, Sirkulasi : 0818 0641 4199

A Group the words in the correct boxes.

branch 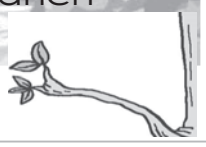	chicken 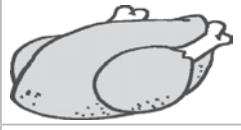	bunch 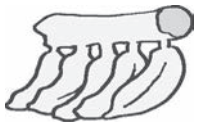
chalk	chair	punch
chocolate	lunch	

Words that **start** with 'ch'	Words that **end** with 'ch'
1.	5.
2.	6.
3.	7.
4.	8.

B Read the paragraph below and asnwer the questions that follow.

Trip to the Zoo

Azmi went to the zoo yesterday. His father took him to the zoo. They went there by car. At the zoo, Azmi saw many animals. He saw tigers, monkeys, giraffes and crocodiles. Azmi was very happy.

1. Where did Azmi go yesterday?
   Azmi went to .....

2. Who took Azmi to the zoo?
   .....
   .....

3. How did they go to the zoo?
   .....
   .....

4. Name two animals that Azmi saw at the zoo.
   a. ..... b. .....

5. Was Azmi happy?
   .....
   .....

C Match the sentences and pictures below to the correct occupations.

postman	policeman	mechanic
teacher	doctor	

1. I repair cars. .....

2. I teach pupils. .....

3. I treat sick people. .....

4. I catch thieves. .....

5. I deliver letters. .....

hi YOUNG

Pemimpin Redaksi:Liew C.W, Layout : Faizal,
Iklan:Sicilia,Sirkulasi: Nana.

be crazy about.....

Be crazy about..... 对……着迷

意思

表示对某种事物热衷的喜好，达到了狂热的态度。

例句

- She is crazy about dancing.
  她对舞蹈非常着迷。
- Don't go crazy about computer games.
  不要迷恋于电脑游戏。

姆鲁山国家公园探秘篇 之

姆鲁山洞探险记

上

1 从姆鲁山国家公园宿舍开始我们经过了蜿蜒的步道小径，途中经过重重的森林与潺潺的河流，经历了一个多小时的徒步才到达了鼎鼎大名的鹿洞入口！

主持：曾庆芬老师
马来西亚荒野保护协会

2 鹿洞的精彩在一踏进洞口便可觉察到了。到了洞口，就见识到它的雄伟。它长逾2公里，高与宽超过90公尺。鹿洞这个名字的由来，据说因为时常有鹿儿在这个山洞停留，当地的比南人(Penan)就把它命名为鹿洞。开头的一段路相当好走，还算明亮。



3 到达一处地方洞穴宽大，漆黑一片，我们靠着微弱的头灯看到了洞穴里大自然巧夺天工的巨作——一个巨大的像小朋友冲凉时用的天然花洒钟乳石。

至今地质学家也感到困惑，他们也不确定花洒钟乳石是怎样形成的。大自然的奥妙真让我们百思不解。

4 可是过后就真是惊险万分了！我们不但要跨过大大小小的石头，路途又黑暗一片，加上又湿又滑，我们的进度非常慢，还是慢慢来比较安全。我们只好一个个攀爬石壁，照顾好自己的脚，别扭到。

下期预告：姆鲁山洞探险记（下）

不能穿不合适的鞋



小朋友，你可知道？

为什么鞋子会有那么多尺寸？为何要选适合自己的？

鞋子太大

走起路来会摇摆不定，容易失去平衡而摔倒，还可能形成不正确的走路姿势。

鞋子太小

会影响脚步的发育，甚至让脚受损。

穿大小适中的鞋才是正确的选择！

爸妈需了解

- ★ 虽然孩子成长的速度很快，不要为了省钱而给孩子选购比较大尺寸的鞋子。
- ★ 除了尺寸，也要考虑鞋子的材质，避免过硬或过软的鞋子。

一年级

A 看图回答问题，把答案圈起来。

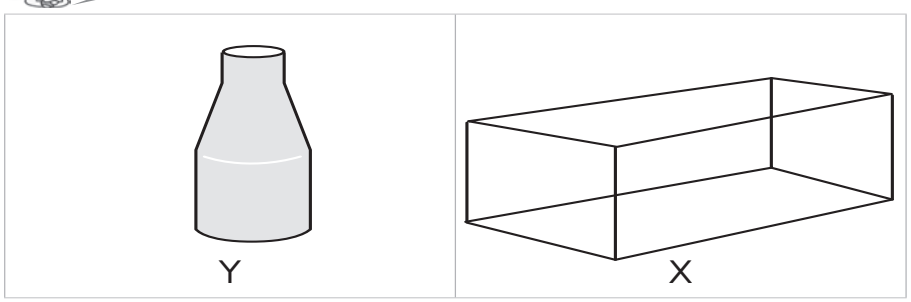

1. Y瓶子能盛的水比X鱼缸（ 多 ， 少 ）。

2. X鱼缸比Y瓶子（ 小 ， 大 ）。

3. 纸杯比汤匙能盛更（ 多 ， 少 ）的水。



4. 一个瓶子能倒满（ 4 ， 5 ）杯子水。

二年级

A 回答以下问题。

1. 把932写成文字。

2. 802， 804， 806， 808， （　　）

3. 以下显示一组数目。
720， 710， 700， （　　），680
在空格里应填上什么数目？

4. 以下显示一组数目。
345， 335， 350， 340， 360， 355
顺序排列以上的数目：

5. 以下显示一组数目。
682， 688， 680， 684， 690， 686
逆序排列以上的数目：

6. 以下显示一组数目。
470， 460， 475， 465， 455
逆序排列以上的数目：

7. 以下显示一组数目。
104， 102， 108， 110， 106
顺序排列以上的数目：

庆祝之后

图／文：永平哥哥

别当低头族

bié dāng dī tóu zú

喂，在那儿玩着平板电脑的小朋友……

wèi zài nàr wán zhe píng bǎn diàn nǎo de xiǎo péng you

别再当低头一族了！
bié zài dāng dī tóu yī zú le

抬起你的头来吧。
tái qǐ nǐ de tóu lái ba

10 华文练习
Mandarin

A 读一读。

瓜儿大，瓜儿圆，
瓜儿像个灯笼挂满园。
瓜儿香，瓜儿甜，
瓜儿熟了布满园，
望着收成遍满园，
农人擦去汗水笑得甜。

1. 挂在园里的瓜儿像（　　）。

2. 成熟的瓜儿又（　　）又（　　）。

3. 农人看着自己的收成，（　　）地笑了。

B 你喜欢吃的水果是什么？画一画，然后写几句话。

C 猜一猜。

D 在田字格里填上正确的答案。

1.

2. 

3.

4. 

E 补笔画。

1. 眉　2. 美　3. 丹

4. 采　5. 满

11 华文练习
Mandarin

A 读一读。

一年战乱，百姓们四处逃难。许衡也随着百姓往河阳的路上走着。

当时正是夏天，天气十分炎热，大家都感到口渴无比，真想找个地方休息，讨一口水来喝。不过，他们一直没有办法找到水喝。

忽然，一个找水的人跑了回来，手上还捧着几个大梨子。大家都跑前去抢梨子。许衡跑向前去，问道："这个梨子是从哪儿买来的？""村子里的人早就逃光了，这梨子并不是买的，而是从他们的梨树上采下来的。"那个人说道。这时，许多人都准备去采梨子吃，只有许衡一个人走开了。

大家都很奇怪，便问许衡为什么不去采梨子吃。许衡回答说："梨树虽然没有主人，可难道我们的心中也无主吗？不是我的东西，我绝对不会去拿的。"

1. 炎热的夏天令百姓感到
   - A 十分着急
   - B 十分口渴
   - C 十分奇怪

2. 找水的人带回来了什么？
   - A 梨树
   - B 梨子
   - C 清水

3. 哪项是正确的？
   - A 找水的人向村民买了几个梨子
   - B 许衡打算和大夥一起去采梨子
   - C 梨树的主人不知道梨子被采了

4. 短文的最后一段告诉我们许衡是一个怎样的人？
   - A 诚信
   - B 勇敢
   - C 善良

B 在田字格里填入正确的标点符号。

1. 这一斤白米真是得来不易啊 □

2. 为什么爸爸一直没有告诉你这件事呢 □

3. 村子里的房子都被大水淹没了 □

4. 姐姐说 □□ 这里的风景真美啊 □□

5. 对不起 □ 我不是故意的 □

C 构成词语。

1. 缸：□ □
2. 握：□ □
3. 诚：□ □
4. 淡：□ □



百发百中

bǎi fā bǎi zhòng

百发百中的含义

形容射箭或射击非常准确，每次都命中目标。也比喻做事有充分把握，绝不落空。

小朋友，对自己要有信心，尽自己最大的力量去把事情做好，才能百发百中啊！

地球在空中会掉下来吗？

啊，如果地球掉下来怎么办？不必担忧！地球受到许多引力的作用，其中主要是太阳的引力作用使它围绕太阳沿一定的轨道运转。因此，地球在空中是不会掉下来的！

地球如何公转自转？

地球绕着太阳转称为公转，公转一圈是一年。在公转的同时，地球还围绕地轴不停地转，这就是地球的自转。地球自转一周就是一个白天加一个夜晚。

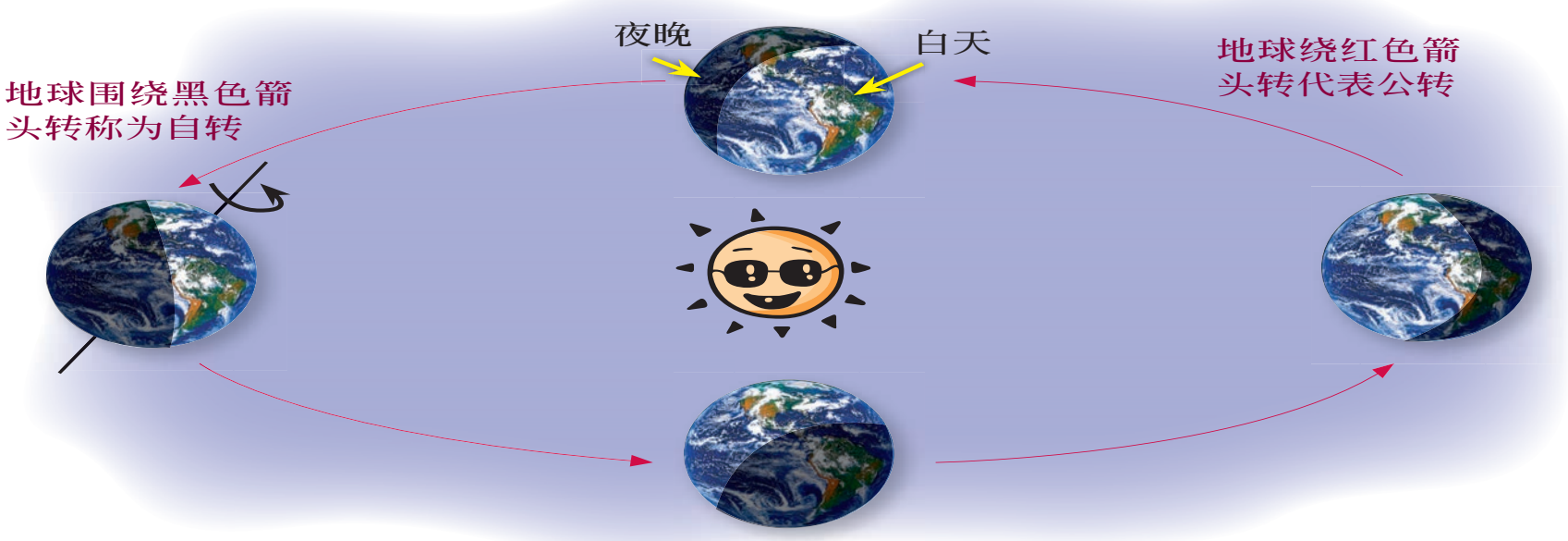

地球自转一周就是一天，24小时。自转产生了昼夜交替的现象，地球朝着太阳的一面是白天，背着太阳的一面是夜晚。当我们这里是白天时，另一侧的美国正好是夜晚。

地球的表面有什么？

地球的表面覆盖着大陆和海洋，这包括了山脉、河流、森林、草原、沙漠、山岭、大洋盆和海沟等等地区。

14 学习小考考
Test

A 选择题。

1. 以下哪项能呼吸？
A 牛奶　C 牛
B 风扇　D 牵牛花

2. 椰树和芒果树会_____。
A 呼吸和繁殖　C 吃饭
B 跑和跳　D 睡觉

3. 小明用_____来尝妈妈的菜肴。
A 眼睛　C 舌头
B 鼻子　D 皮肤

4. 鼻子的功用是什么？
A 听音乐　C 嗅气味
B 看东西　D 吃东西

5. 选出有触角的动物组合。
A 海龟和乌龟
B 猫和狗
C 蛇和老鼠
D 蝴蝶和蟑螂

6. 以下哪项植物是有果实的？
A 蕨和仙人掌
B 椰树和茅草
C 红毛丹树和芒果树
D 木槿和鸟窝蕨

7. 我们用眼睛来_____东西。
A 看　C 吃
B 听　D 玩

8. 巴士比汽车_____。
A 小　C 短
B 大　D 好看

9. 我们用舌头来_____味道。
A 嗅　C 看
B 尝　D 听

10. _____的味道是咸的。
A 糖果　C 油
B 海水　D 汽油

11. 皮肤能够感觉到_____的东西。
A 有气味　C 冷
B 有颜色　D 有辣味

12. 凤梨的外皮感觉很_____。
A 细　C 热
B 冷　D 粗

13. 耳朵可以听到_____的东西。
A 有气味　C 有颜色
B 有声音　D 会移动

14. 猫会发出什么声音？
A 喔喔叫　C 喵喵叫
B 咩咩叫　D 哞哞叫

15. 救伤车发出_____。
A 噪音
B 讯号声
C 悦耳的声音
D 尖叫的声音

15 学习小考考
Test

● 二年级

A 根据动物的进食习惯，画线连一连。

1.


2.

3.

4.

a. 肉食动物

b. 草食动物

c. 杂食动物

B 填上适合的答案。

遮阳	避雨	营养	补充
精力	水分	躲避危险	

1.

人类需要水以_____身体所流失的_____。

2.

人类需要庇护所来_____、_____和_____。

3.

人类需要食物以获取_____和_____。

● 三年级

A 回答问题。

陈老师在科学室里进行了一个实验。他准备了以下的电路，并把两种不同的物体依次连接在电路上。实验结果，记录在以下的图表里。

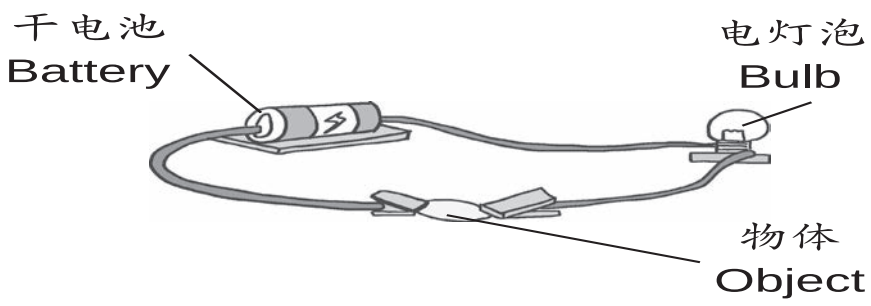

物体的种类	电灯泡的情况
铁钉	发亮
纸巾	不能发亮

1. 这项实验的目的是什么？

_____

_____

2. _____是会导电的物体。

3. _____是绝缘体。

4. 根据这项实验，写出

（a）须改变的事项：

_____

（b）须观察的事项：

_____

营养食物配对

三餐均衡食物，肥胖远离我们！

小云姐姐和小吉哥哥以营养食物出题考考你：小朋友试试在这迷宫里，把相同的食物组合配对起来，记得路线不可以重复啊！